Проверка домашнего задания

№ 76 **Волк бросился за зайцем, когда тот был на расстоянии 10 м от него. Скорость зайца – x м/мин, скорость волка – y м/мин, причём волк бежит быстрее зайца. Запишите на математическом языке:**

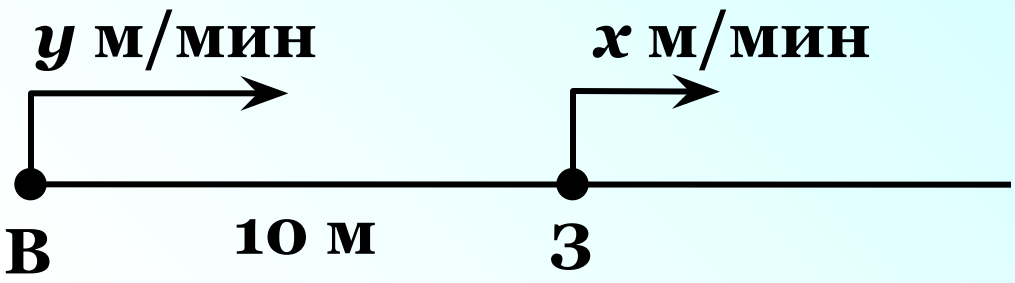

а) скорость сближения волка и зайца;

$y - x$ (м/мин)

б) время, которое потребуется волку, чтобы догнать зайца.

$10 : (y - x)$ (мин)

№ 84 **Впервые человек ступил на поверхность Луны 21 июля 1969 года. Это был американский астронавт Нил Армстронг. Сколько лет, месяцев и дней прошло с того момента до сегодняшнего дня?**

48 лет 1 месяц 28 дней



4.1. Проведите прямую, проходящую через точки A и B. Определите, проходит ли прямая AB через точку C.

а)

не проходит

б)

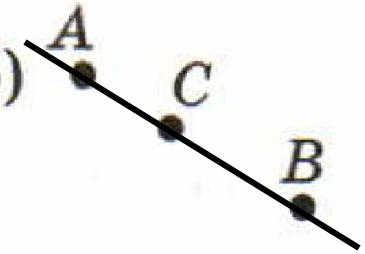

проходит

в)

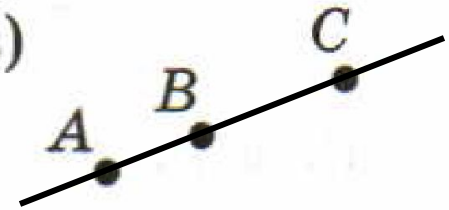

проходит

4.2. Точки M и N соединены отрезком. Определите, принадлежит ли точка K отрезку MN.

а)

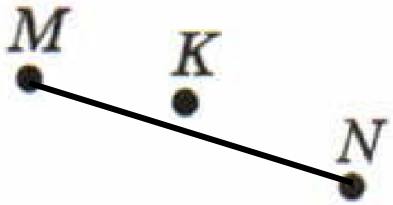

не принадлежит

б)

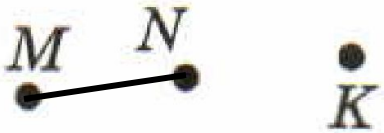

не принадлежит

в)



принадлежит

4.5. Заполните таблицу:

a	1	1	3	6
b	1	0	7	10
$2a + 5b$	7	2	41	62
$15a - 6b$	9	15	3	30

Укажите число, которое надо вставить, чтобы получилось верное равенство.

$34 + \square = 100$

76

74

66

Укажите число, которое надо вставить, чтобы получилось верное равенство.

$72 + \square = 100$

22

28

38

Укажите число, которое надо вставить, чтобы получилось верное равенство.

$\square + 68 = 100$

28

32

42

Укажите число, которое надо вставить, чтобы получилось верное равенство.

$\square + 47 = 100$

63

67

53

Укажите число, которое надо вставить, чтобы получилось верное равенство.

17 + ☐ = 50

33

43

67

Укажите число, которое надо вставить, чтобы получилось верное равенство.

39 + ☐ = 75

34

44

36

Укажите число, которое надо вставить, чтобы получилось верное равенство.

46 + ☐ = 81

45

35

25

Укажите число, которое надо вставить, чтобы получилось верное равенство.

$\square + 39 = 67$

28

38

18



Укажите число, которое надо вставить, чтобы получилось верное равенство.

$\square + 82 = 100$

28

32

18

Конец

□ + 82 = 100

28

32

18

Молодцы

Молодцы

*

К л а с с н а я р а б о т а.

№ 87

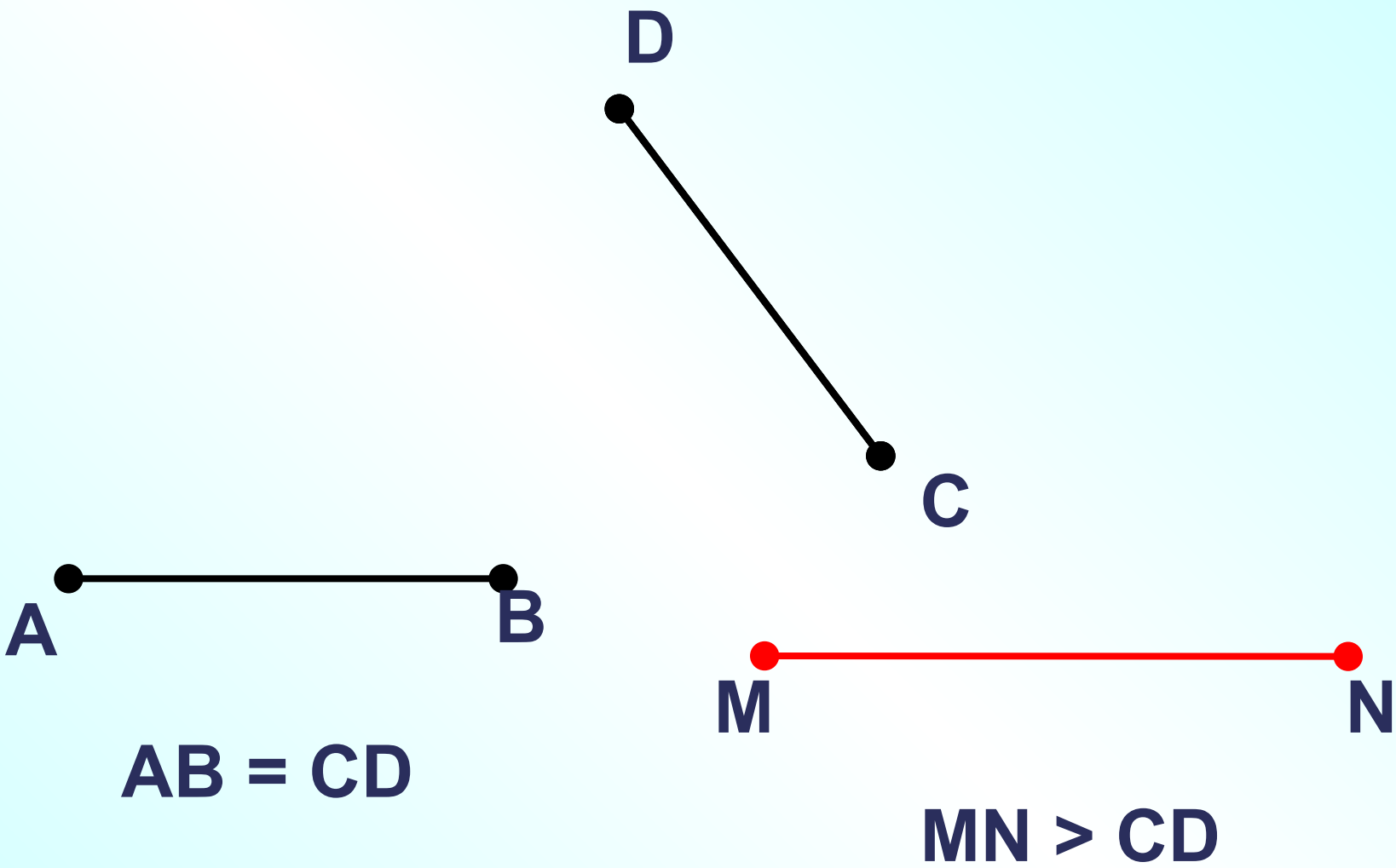

На геометрических рисунках принято равные отрезки отмечать одинаковым числом чёрточек

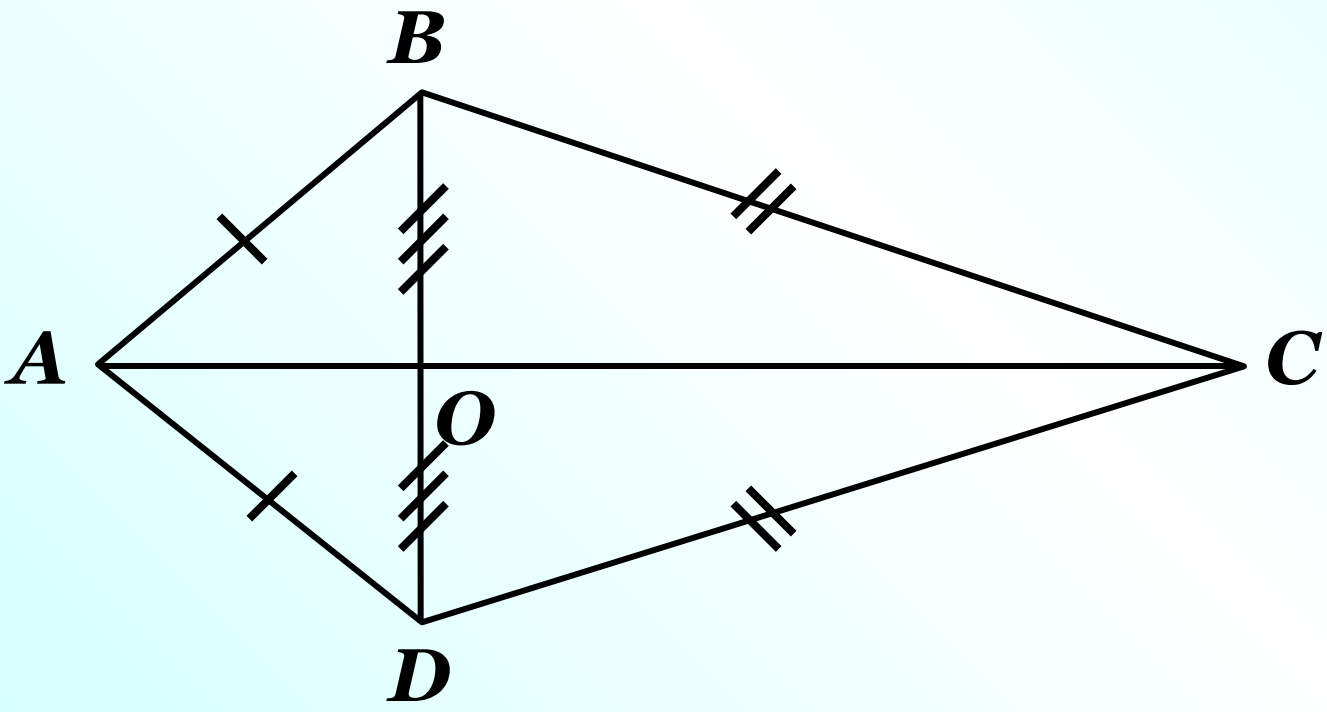

$AB = AD$

$BC = DC$

$BO = DO$

Сделайте в тетради такой же рисунок, отметьте на нём равные отрезки. Запишите с помощью равенств какие отрезки равны.

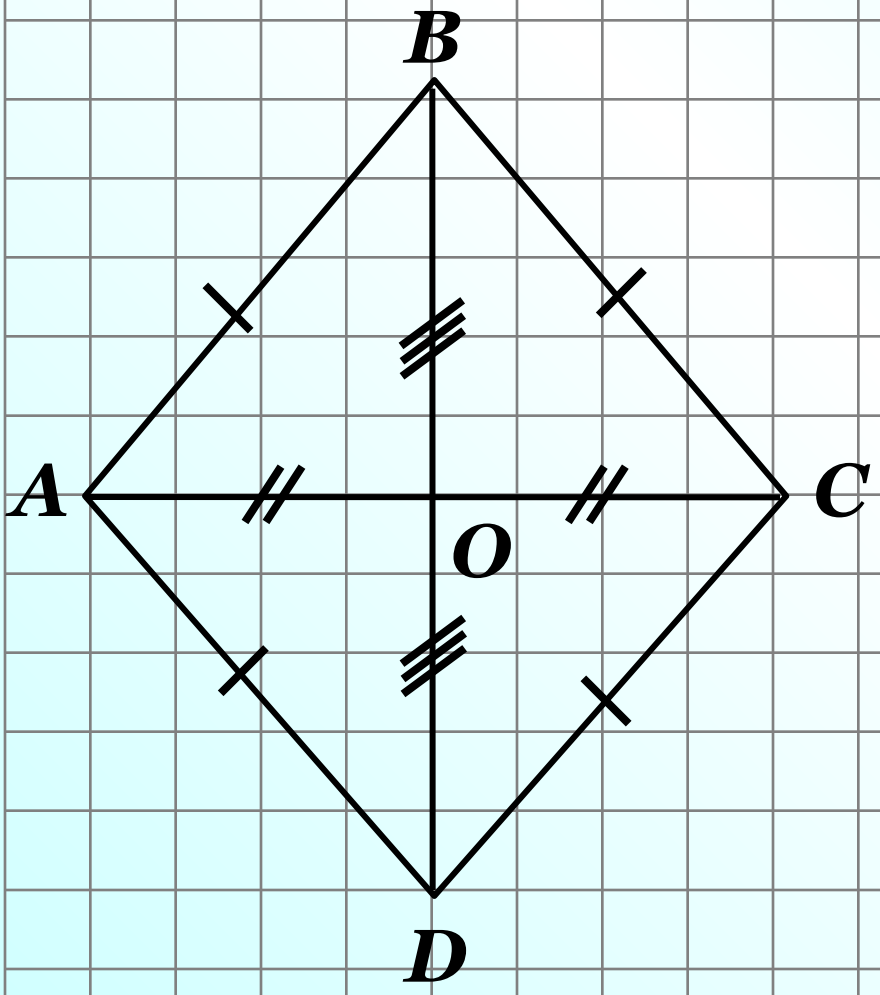

Проверьте себя!

$AB = BC = CD = AD$

$AO = CO$

$BO = DO$

Учебник:

стр. 30

Дома:

У: № 92; 93; 101

РТ § 5 № 1; 7(а)

Ошибка!