Тест по математике 2 класс

ТЕМА: «ГЕОМЕТРИЧЕСКИЕ ФИГУРЫ»

Комментарий

СЕГОДНЯ МЫ С ВАМИ ПОВТОРИМ ГЕОМЕТРИЧЕСКИЕ ФИГУРЫ. И ПРЕЖДЕ ЧЕМ НАЧАТЬ ТЕСТ Я НАПОМНЮ ВАМ НЕКОТОРЫЕ МОМЕНТЫ.

1. У КВАДРАТА ВСЕ СТОРОНЫ РАВНЫ
2. У ТРЕУГОЛЬНИКА 3 СТОРОНЫ И 3 УГЛА
3. У МНОГОУГОЛЬНИКА МНОГО СТОРОН И МНОГО И МНОГО УГЛОВ

ДУМАЮ ОСТАЛЬНОЕ ВЫ ВСПОМНИТЕ САМИ!!

Удачи ВАМ!!!

Выберите пятиугольник

A. 

B. 

C. 

РОМБ

ПОПРОБУЙ ЕЩЕ РАЗ



ПОПРОБУЙ ЕЩЕ РАЗ

МОЛОДЕЦ!!!

КАКАЯ ФИГУРА СОСТАВЛЕНА ИЗ КРИВЫХ ЛИНИЙ?

A.

B.

C.

В ЭТОЙ ФИГУРЕ ЕСТЬ ОДНА ПРЯМАЯ ЛИНИЯ



Попробуй еще раз

В ЭТОЙ ФИГУРЕ НЕТ КРИВЫХ ЛИНИЙ



Попробуй еще раз

В ДАННОЙ ФИГУРЕ ВСЕ ЛИНИИ КРИВЫЕ

МОЛОДЕЦ!!!

СКОЛЬКО ТРЕУГОЛЬНИКОВ ИЗОБРАЖЕНО НА РИСУНКЕ?

- 3
- 7
- 5

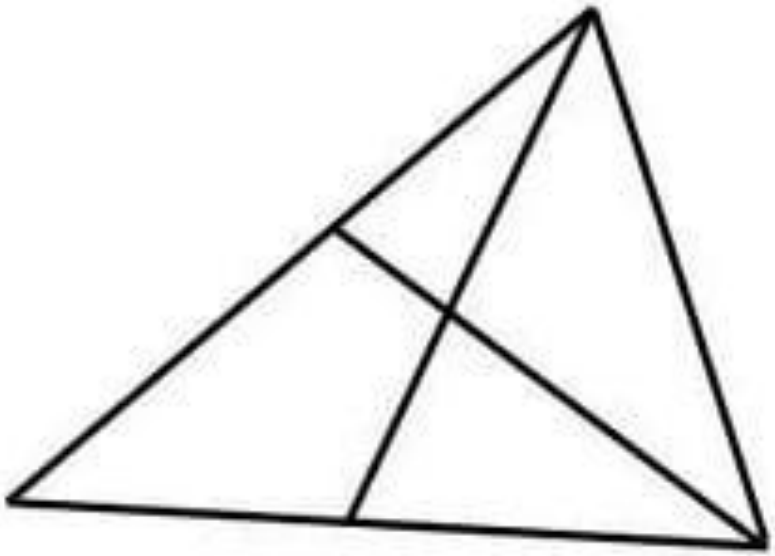

На рисунке изображено треугольника

3







Попробуй еще раз

А РИСУНКЕ ИЗОБРАЖЕНО ТРЕУГОЛЬНИКОВ

Попробуй еще раз

НА РИСУНКЕ ИЗОБРАЖЕНО ТРЕУГОЛЬНИКОВ

МОЛОДЕЦ!!!

ЗАКЛЮЧЕНИЕ

Надеюсь вам понравился это тест. И вы все прошли его на отлично, ведь это было легло.