Математический КВН

Девизы:

Математика – гимнастика ума.

Математику затем учить следует,
что она ум в порядок приводит.
М. В. Ломоносов

Конкурс «разминка»

1. На грядке сидели 4 воробья. К ним прилетели ещё 2 воробья. Кот Васька подкрался, схватил одного воробья и убежал. Сколько воробьёв осталось на грядке?

[0, остальные улетели]

2. четверо играли в домино 4 часа. Сколько часов играл каждый?

[4часа]

3. шли по дороге два мальчика, и нашли 2р. За ними ещё четверо идут, сколько они найдут?

[Ничего не найдут].

4. петух, стоя на одной ноге, весит 3 кг. Сколько он весит, стоя на двух ногах?



[3кг]

5. Найти 2 числа, произведение и частное которых равно 24.

[Числа 24 и 1]

6. Сколько получится десятков, если 2 десятка умножить на 3 десятка?

[60 десятков]

7. Пассажир автобуса ехал в село. По дороге он встретил пять грузовиков и три легковые машины. Сколько всего машин ехало в село?

[Один автобус, остальные ехали из села]

8. ребята пилят бревно на части определённой длины. Отпиливание одного такого куска занимает одну минуту. За сколько минут они распилят бревно длиной 5 м на пять частей?

[За 4 минуты]



Ж

З Б ’

Ч

3, 2, 1, 4

7’Я

Конкурс «художники»

* Команде необходимо нарисовать картину, используя только математические фигуры, знаки, цифры и т.д.

6.Конкурс «весёлые нотки»

Каждая команда должна спеть песню, в которой есть числительные. Учитывается как правильный выбор песни, так и качество исполнения.

7.Конкурс « *угадай-ка*»

Команде предлагается решить ребусы.

8.Конкурс болельщикам

Задачи

1. (1 очко) на одной чаше весов кирпич, а на другой – половина такого же кирпича и гиря в 1 кг. Весы находятся в равновесии. Сколько весит кирпич?

[2кг]

2 . (1 очко)в комнате 4 угла. В каждом углу сидит кошка. Напротив каждой кошки по три кошки. На хвосте каждой кошки по одной кошке. Сколько же всего кошек в комнате?

[4 кошки]

3 . (2 очка) имеется кусок сукна длиной 16м, от которого каждый день отрезают по 2 м. по истечении скольких дней отрежут последний кусок?

[7дней]

4 .(2 очка) у отца 6 сыновей. Каждый сын имеет одну сестру. Сколько всего детей у отца?

[7 детей]

5. (2 очка) разделить 5 яблок между пятью детьми так, чтобы каждый получил по яблоку и одно яблоко осталось в корзине?

[Четырём детям раздать по яблоку, а пятому отдать яблоко в корзине]

Конкурс «Смотри не ошибись.

Посмотрите на таблицу в течение 30 секунд. Все что запомнили, воспроизведите в своей таблице.

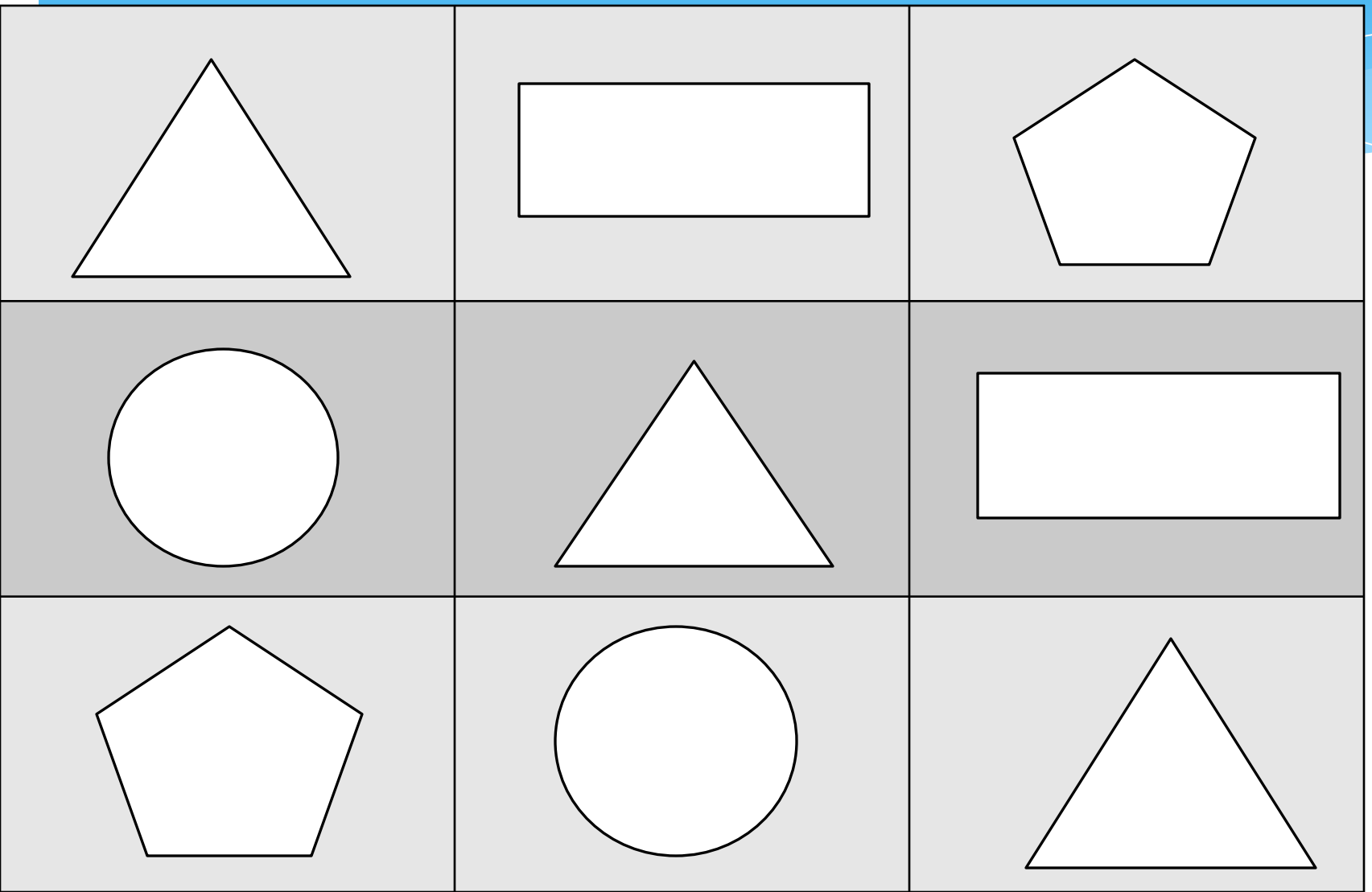

Составьте новые слова из слова

математика

Давайте поиграем

Каждой руке свое дело

6. Конкурс «Борьба за цифру»



Исправьте ошибку в спичечной записи, переложив всего одну спичку

1) **VI – IV = IX**

2) **IX – V = VI**

3) **VIII – III = X**

ответ: 1) V+IV=IX

ответ:2)X-IV=VI

ответ:3)VIII+II=X

КОНКУРС

Вспомнить загадки и пословицы с математическим смыслом

Конкурс «домашнее задание»
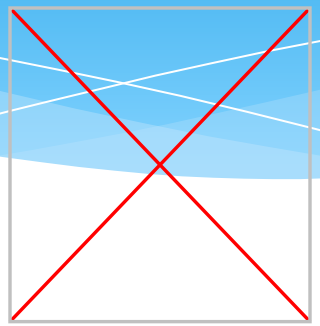
Итоги конкурсов. Награждение.