

Цифры

Королёва Ирина Николаевна
учитель начальных классов
МКОУ СОШ №2
г.Нефтекумска

1 Напиши ряд цифр от 0 до 9.

0 1 2 3 4 5 6 7 8 9

2 По точкам от 0 до 9 нарисуй фигуру.

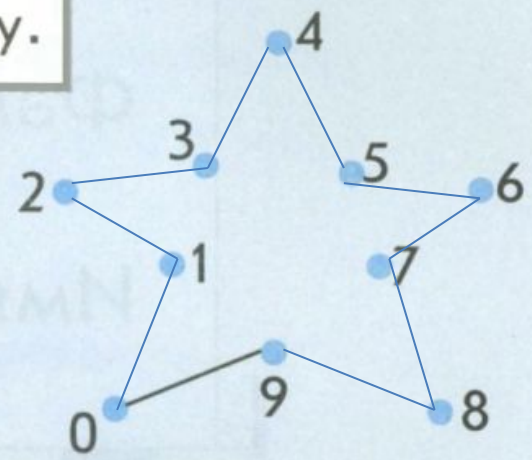

Придумай пример из жизни

1

2

3 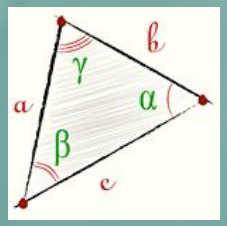

4

5

6 

7

8

9

0

3 Паровозик из Ромашково.

1. Сосчитай, сколько всего вагонов.
2. Пронумеруй их.
3. Кто едет в первом, втором, пятом восьмом вагонах?
4. Какие вагоны пустые?
5. В какие вагоны билеты у Чебурашки, у Пятачка?
6. В каком вагоне едет Шапокляк?



4 Составь правильно сказку «Репка».
Расставь номера картинок по порядку.



Физминутка



ЗДОРОВО!

5 Почтальон обошёл все дома в городе Весёлых Человечков по порядку от первого до девятого. Отметь линией его путь.

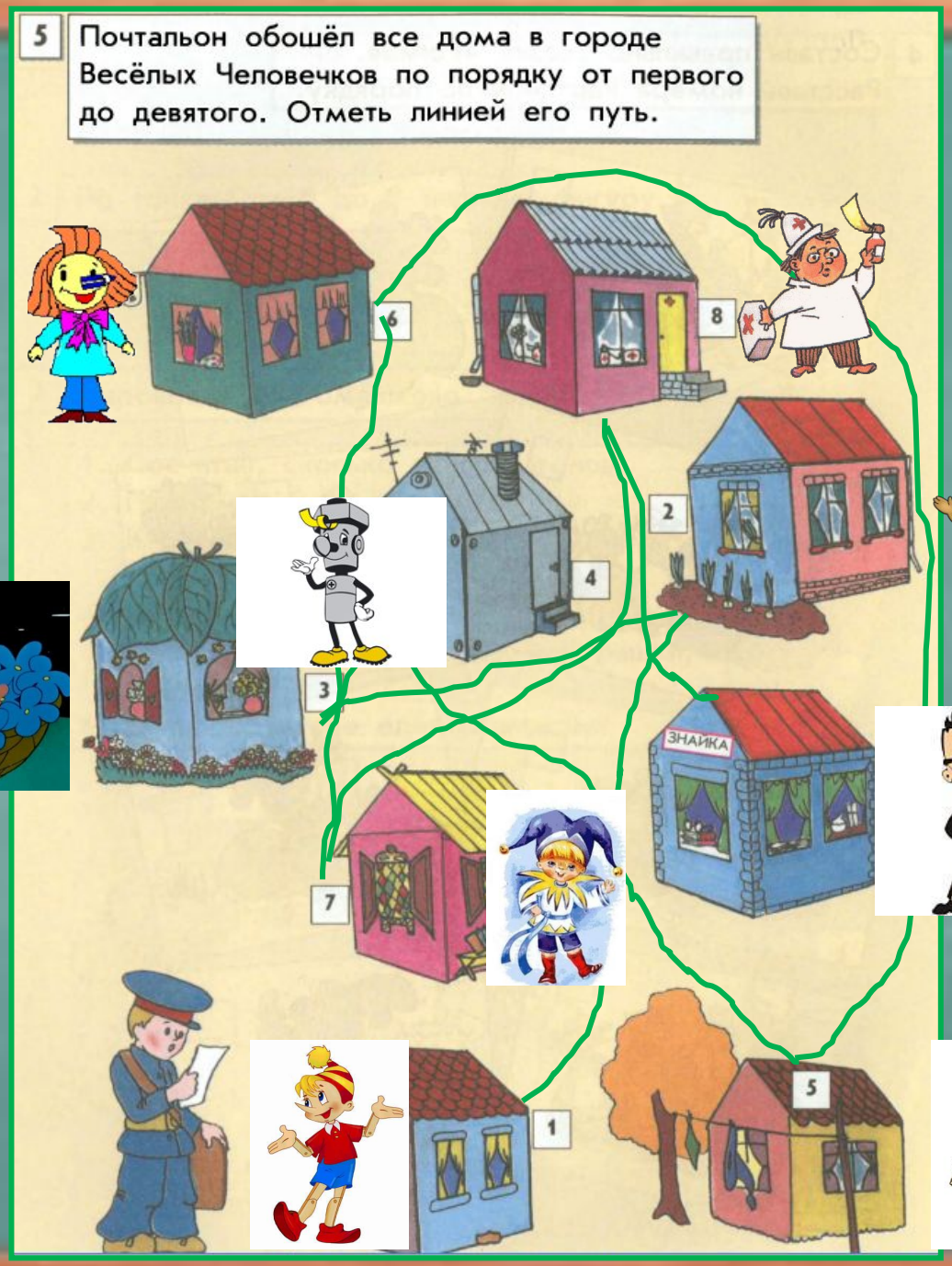

6 Дорисуй ромашки.



7 Укажи стрелочкой место веточки, которая расположена неправильно.





Отгадай-ка

Какая цифра при переворачивании становится шестёркой?

9

Какие цифры при переворачивании не изменяются?

8 0

Какая цифра является лучшей оценкой в школе?

5

Какие цифры похожи на буквы?

0 3

8 Расставь по порядку цифры от 0 до 9, и ты узнаешь, как правильно раскрасить жар-птицу.

0	–	зелёным
1	–	жёлтым
2	–	оранжевым
3	–	коричневым
4	–	фиолетовым
5	–	голубым
6	–	синим
7	–	розовым
8	–	красным
9	–	салатовым



0
1
2
3
4
5
6
7
8
9

ИСТОЧНИКИ

http://www.proshkolu.ru/user/kornienko47/file/3031566/

http://img3.proshkolu.ru/content/media/pic/std/3000000/2354000/2353867-c49d8bf69bd64ce1.gif

http://www.proshkolu.ru/user/tcheckanova67/file/1637618/

http://animashki.kak2z.org/category.php?cat=5&pn=13

http://animashki.kak2z.org/category.php?cat=6&pn=3

http://animashki.kak2z.org/category.php?cat=6&pn=4

http://animashki.kak2z.org/category.php?cat=39&pn=1

http://animashki.kak2z.org/category.php?cat=39&pn=7