Составление задач по рисунку

Составные части задачи

Составь по схеме задачу

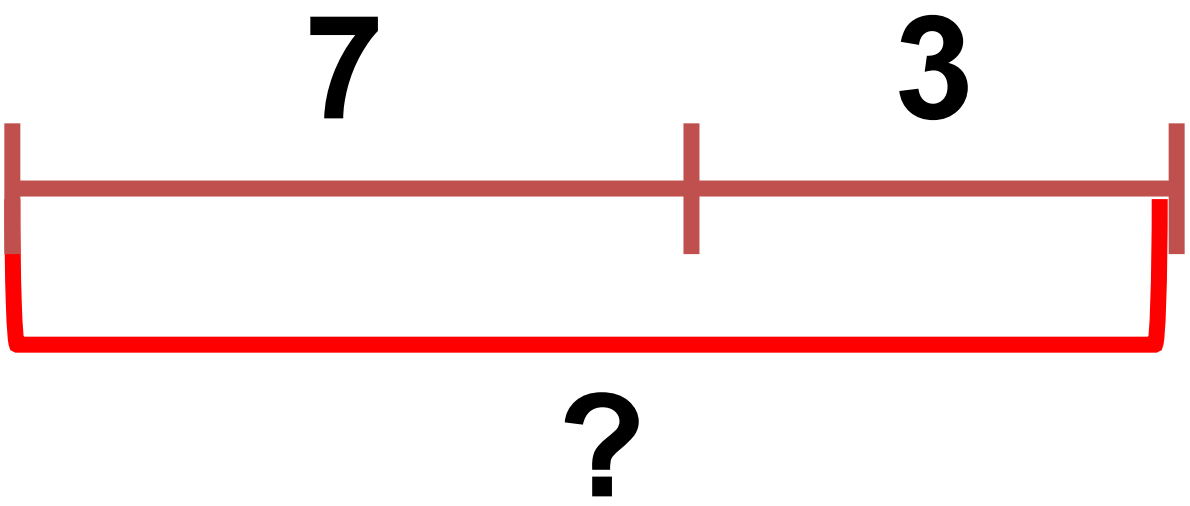

Составь по схеме задачу

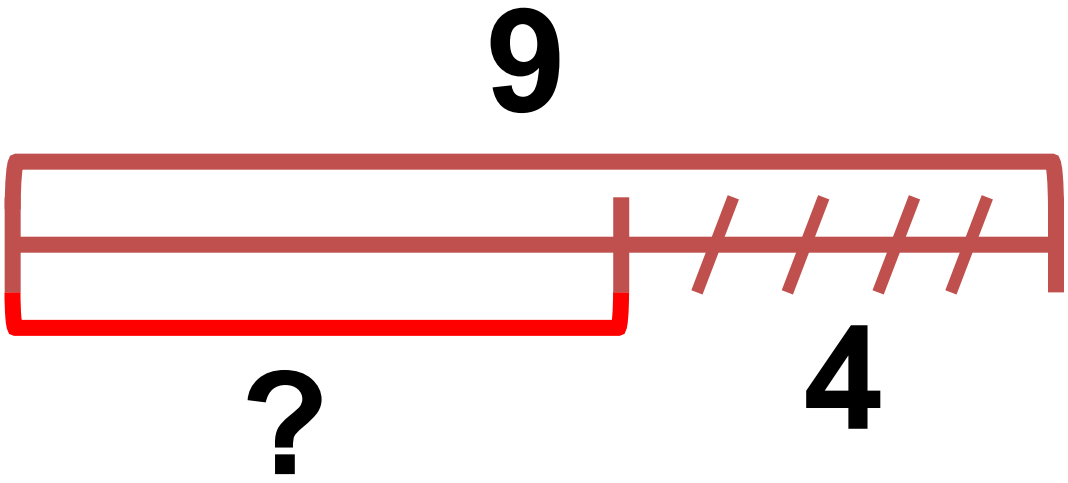

1. Составь задачи по каждой картинке и реши их. Прочитай решение и ответ.

1)



□ + □ = □

□ − □ = □

2)



□ + □ = □

□ − □ = □

3)



□ + □ = □

□ − □ = □

4)

□ + □ = □

□ − □ = □

Работа в тетрадочке

2. Выполни сложение и вычитание.

3 + 2
5 − 2

4 + 2
6 − 2

5 + 2
7 − 2

3. Прибавляй по 2.



$2 + 2 + 2 = \square$

4. Вычитай по 2.



$10 - 2 - 2 = \square$

Мы ногами топ-топ,
Мы руками хлоп-хлоп,
А потом прыг-скок
А потом вприсядку,
И опять вприсядку,
Побежим мы по дорожке
Раз, два, три!
И похлопаем в ладошки
Раз, два, три!
И покрутим головами
Раз, два, три!
Все танцуйте вместе с нами
Раз, два, три!

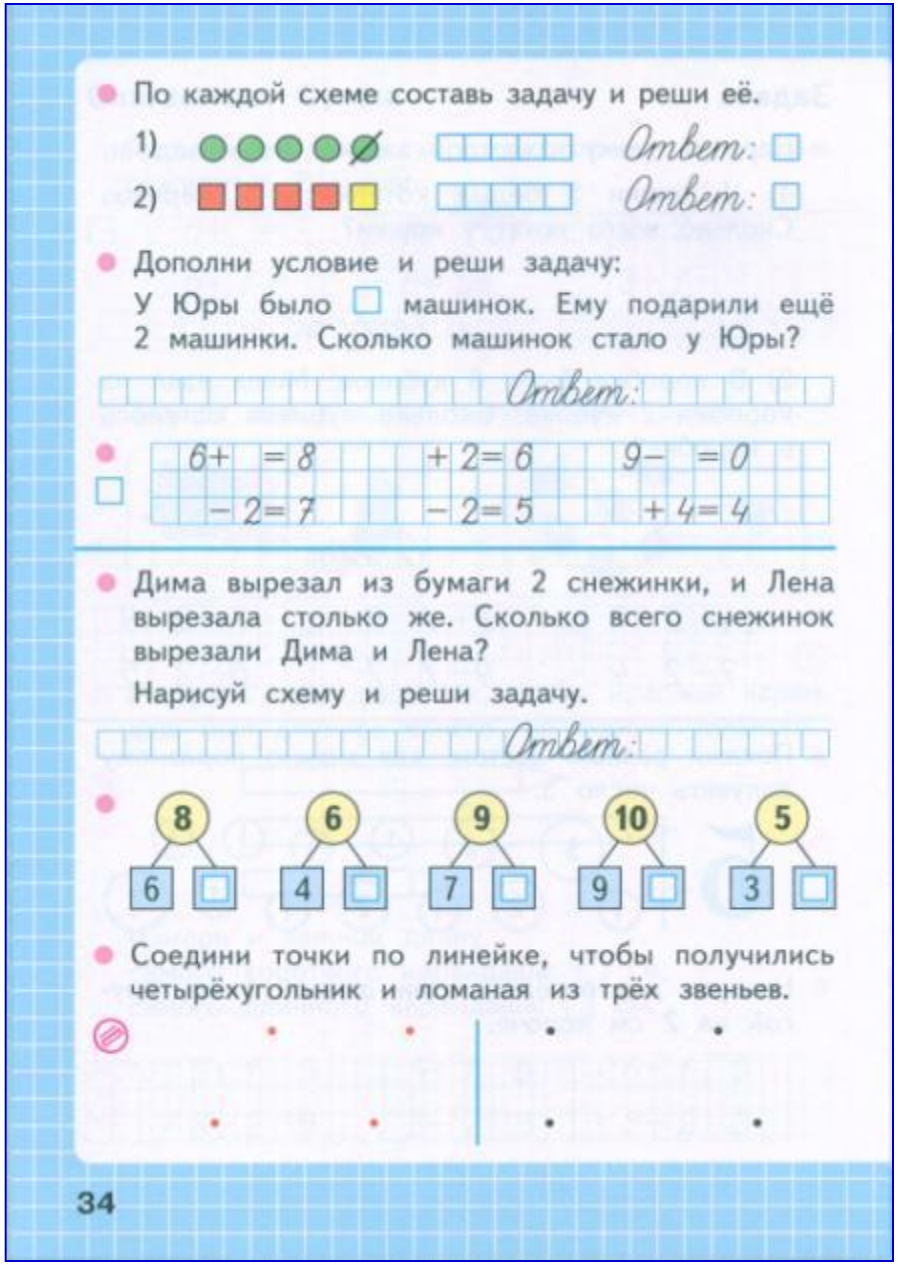

- По каждой схеме составь задачу и реши её.

1) Ответ: □

2) Ответ: □

- Дополни условие и реши задачу:

У Юры было □ машинок. Ему подарили ещё 2 машинки. Сколько машинок стало у Юры?

Ответ:

- □

6+ = 8	+ 2= 6	9− = 0
− 2= 7	− 2= 5	+ 4= 4

- Дима вырезал из бумаги 2 снежинки, и Лена вырезала столько же. Сколько всего снежинок вырезали Дима и Лена?

Нарисуй схему и реши задачу.

Ответ:

- 8: 6, □; 6: 4, □; 9: 7, □; 10: 9, □; 5: 3, □

- Соедини точки по линейке, чтобы получились четырёхугольник и ломаная из трёх звеньев.

34

- По каждой схеме составь задачу и реши её.

1)

Ответ: □

2)

Ответ: □

- Дополни условие и реши задачу:

У Юры было □ машинок. Ему подарили ещё 2 машинки. Сколько машинок стало у Юры?

Ответ:

- □

6 + □ = 8	□ + 2 = 6	9 − □ = 0
□ − 2 = 7	□ − 2 = 5	□ + 4 = 4

- Дима вырезал из бумаги 2 снежинки, и Лена вырезала столько же. Сколько всего снежинок вырезали Дима и Лена?

  Нарисуй схему и реши задачу.

Ответ:

- 

- Соедини точки по линейке, чтобы получились четырёхугольник и ломаная из трёх звеньев.

- Я умею сам

- Я умею, но не уверен

- Нужна помощь

Домашнее задание

4. Вычитай по 2.

$10 - 2 - 2 = \square$

5. По рисунку закончи записи и составь новые на прибавление числа 1 и числа 2.

$2 + 1 = \square$ $3 + 2 = \square$ $5 + 2 = \square$

6. Объясни, как сделать, чтобы у всех кроликов были одинаковые порции.

Закончи вопрос и реши задачи:

1) У Васи .

У Вики 2 марки. Сколько всего ... ?

2) У Милы было 4 шарика. 1 шарик лопнул. Сколько шариков ... ?

РАЗБЕЙ НА 2 ГРУППЫ: